GEOGRAFÍA 3º de ESO

MATERIALES PARA SEPTIEMBRE 2021

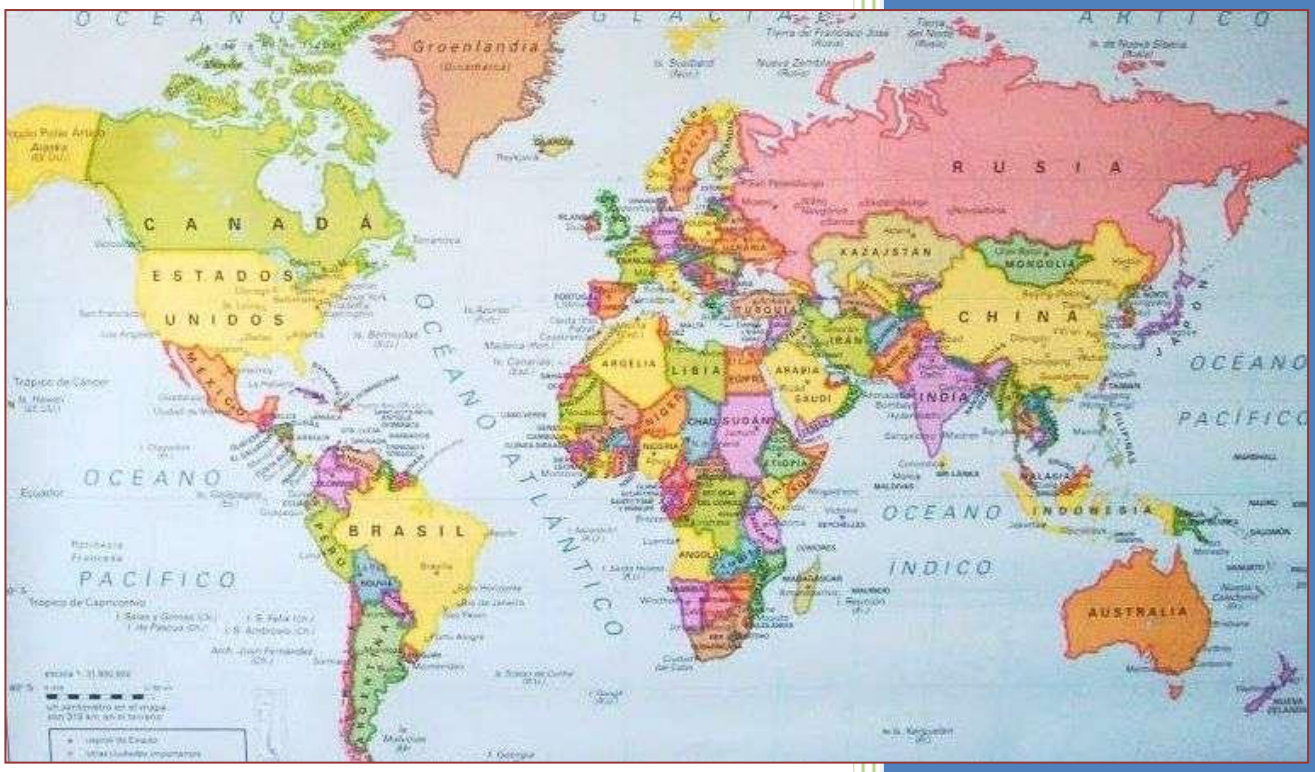

Ana María Honrado

Departamento de Geografía e Historia

NOMBRE:……CURSO:….

1. – Define longitud y latitud. Aplicando las definiciones localiza en el mapa los elementos indicados.

Define Longitud:

Define Latitud:

- Localiza un barco pesquero situado a 60º Latitud Norte y 30º Longitud Oeste.

- Localiza Un avión realiza un aterrizaje de emergencia en un lugar situado a 30º Latitud Sur y 140º Longitud Este.

- Indica las coordenadas de los seis puntos marcados en el mapa.

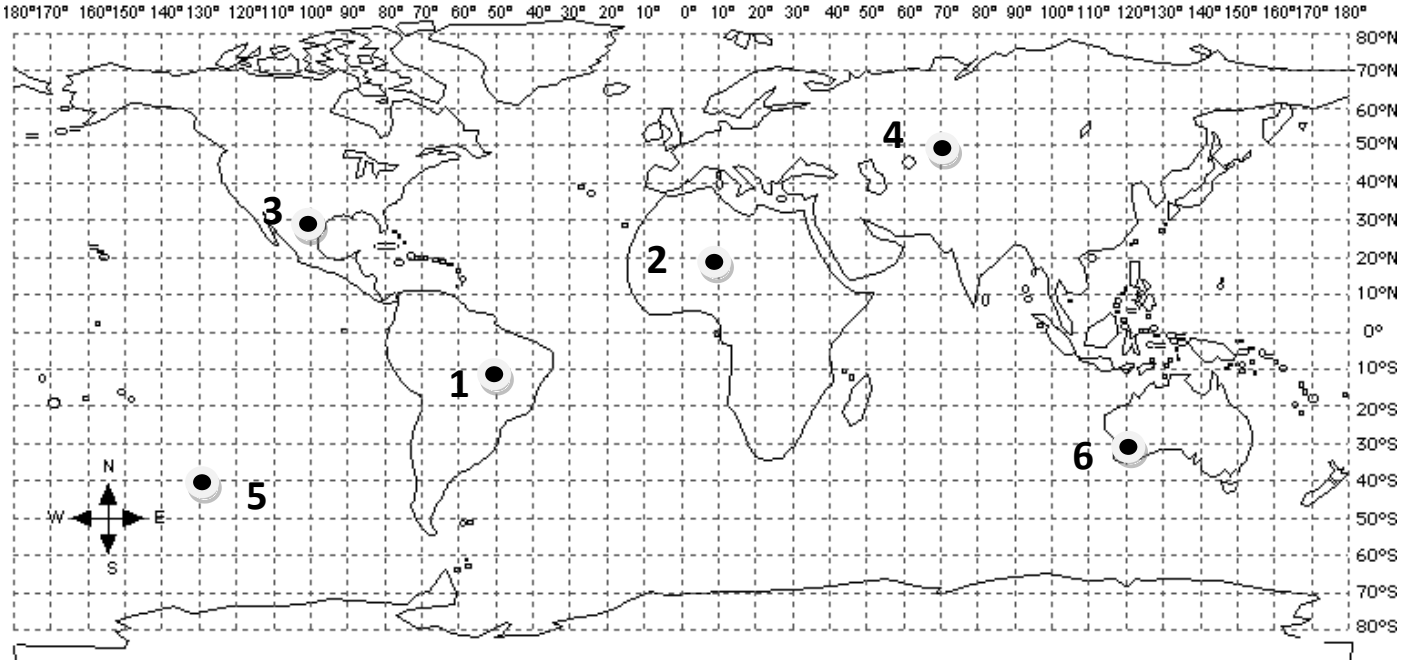

1. - **4. -**

2. - **5. -**

3. - **6. -**

2. – Define meridiano y husos horarios. Resuelve los problemas.

Define Meridiano:

Define Husos horarios:

Primer problema de husos horarios: (Indica todo el desarrollo del problema)

- Calcula cuál será la hora de un lugar situado a 40º de Latitud N y 120º de Longitud O si sabemos que en Greenwich son las 12 horas. ¿En qué continente estaríamos?

Segundo problema de husos horarios: (Indica todo el desarrollo del problema)

- Calcula cuál será la longitud de la ciudad que vas a visitar este verano, sabiendo que allí son las 20 h. cuando en Greenwich son las 13 h. ¿En qué continente estaríamos si tiene latitud norte?

3. – Completa el siguiente cuadro sobre el relieve de la Península Ibérica.

LOCALIZACIÓN	SISTEMA MONTAÑOSO	SIERRAS	PICOS
Sistemas montañosos interiores			
Rebordes exteriores de la Meseta			
Cordilleras exteriores a la Meseta			
		_____	

4. – Completa este cuadro con los datos de cinco parques naturales de España.

PARQUE NACIONAL	LOCALIZACIÓN	VALORES NATURALES
PARQUE DE ORDESA Y MONTE PERDIDO		
PARQUE DEL ARCHIPIÉLADO DE CABRERA		
PARQUE DEL TEIDE		
PARQUE DE LAS TABLAS DE DAIMIEL		
PARQUE DE PICOS DE EUROPA		

5. – Aplicando las fórmulas halla la Densidad, las Tasas de Natalidad, Mortalidad, Mortalidad Infantil y Crecimiento Natural de Galicia. (Pon las fórmulas y las operaciones).

Comunidad Autónoma	Población	Superficie	Nacimientos	Defunciones	Defunciones de niños menores de 1 año
GALICIA	2.762.198	29. 574 km^2	21. 097	29.316	67

- Densidad de población:

- Tasa de Natalidad:

- Tasa de Mortalidad:

- Tasa de Mortalidad Infantil:

- Tasa de Crecimiento Natural:

6. – Relaciona:

1	**ÁFRICA**		Montañas Rocosas y Apalaches		Ríos Volga y Don
2	**ASIA**		Cordillera del Himalaya e Hindu Kush		Nueva Zelanda y Hawai
3	**AMÉRICA DEL NORTE**		Gran Cordillera Divisoria		Ríos Nilo y Congo
4	**AMERICA DEL SUR**		Alpes y Apeninos		Grandes Lagos
5	**OCEANÍA**		Montes Drakensberg		Isla de Santo Domingo
6	**EUROPA**		Ríos Makenzie y Yukón		Ríos Obi y Yenisei
7	**ASIA**		Ríos Amazonas y Orinoco		Lago Victoria
8	**ÁFRICA**		Cáucaso y Montes Urales		Lagos Ladoga y Onega
9	**EUROPA**		Cordillera del Atlas		Ríos Mississipi y Bravo
10	**AMÉRICA DEL NORTE**		Archipiélagos de Japón y Filipinas		Ríos Amur y Huang Ho

7. – Comenta la pirámide de población de España de 1950 siguiendo las pautas.

1. – Define pirámide de población e indica el lugar y fecha de esta pirámide concreta

2. – Explica su forma y las causas de la misma.

3. – Divide la pirámide en sus tramos de edades y explica sus características y diferencias.

4. – Analiza la base, la cúspide y el perfil y explica sus características y causas.

5. – Revisa el perfil de la pirámide e indica si hay entrantes o salientes significativos.

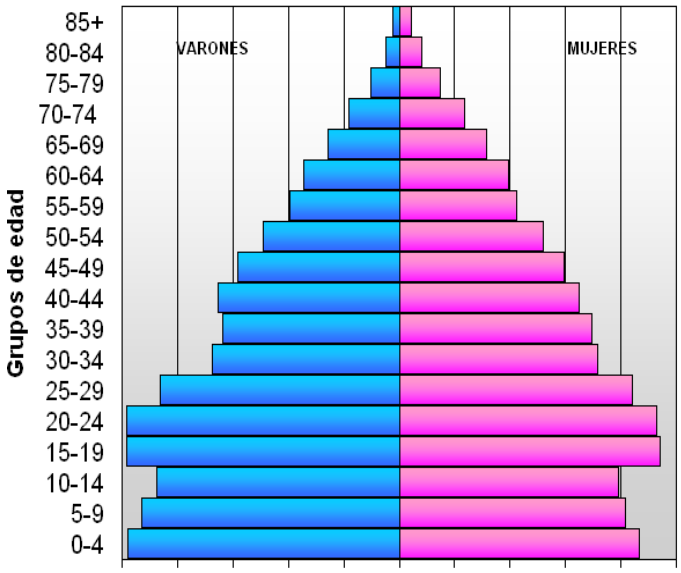

6. – Analiza las diferencias entre hombres y mujeres y explícalas.

8. – Define poblamiento rural. Indica los tipos de poblamiento rural existentes. Define pueblo e indica los tipos de pueblo que existen y sus características.

9. - ¿Qué son las fuentes de energía? ¿Qué diferencias existen entre las energías renovables y las no renovables? Explica las energías RENOVABLES.

10. – ¿Qué es un plano urbano? Identifica el tipo de plano que corresponde a cada imagen. Explica las características de cada tipo de plano y pon un ejemplo.

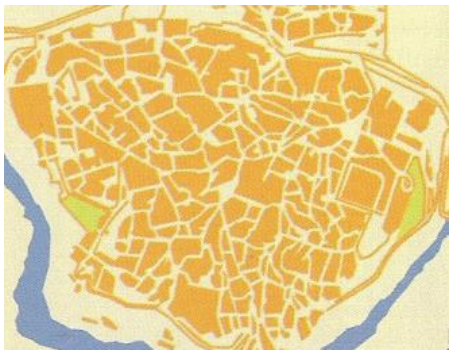

1)

2)

3)

11. - ¿Qué es la ganadería? Explica los diferentes tipos de ganado y de ganadería existentes

12. – ¿Qué es la industria? Indica los tipos de industria existentes, explica cada uno de ellos y pon ejemplos de industrias y de países productores de cada tipo

13. – Define factores de producción y completa el cuadro sobre los mismos. ¿Cuántos y cuáles son los sectores económicos?

FACTORES	CARACTERÍSTICAS
1.	
2.	
3.	

14. – Define agentes económicos y completa el siguiente cuadro sobre los tipos de agentes económicos, su definición y características.

AGENTES ECONÓMICOS	CARACTERÍSTICAS
1. –	
2. –	
3. –	

15. – Relaciona los siguientes términos con su definición

1	Seguridad Social		Empresa colectiva por acciones que reparte beneficios proporcionalmente
2	INEM		Organismo que protege a los trabajadores en situaciones de necesidad
3	Emplazamiento		Aportación obligatoria para la Seguridad Social de empresa y trabajadores
4	Jornada laboral		Empresa con producción y/o distribución en varios países
5	Indicador económico		Conjunto de ciudades de un país organizadas jerárquicamente
6	Jerarquía urbana		Documento que recoge las condiciones laborales de una empresa
7	Cotización		Movimiento de salida permanente de la población de un lugar
8	Situación		Diferencia entre el número de emigrantes e inmigrantes de un lugar
9	Multinacional		Productos y servicios que sirven para satisfacer necesidades humanas
10	Economía		Tiempo de trabajo diario de cualquier empleado
11	Red urbana		Movimiento migratorio realizado por necesidad
12	Impuestos		Aumento de precios al consumo en un periodo de tiempo concreto
13	Política económica		Ciencia que se ocupa de atender necesidades usando recursos existentes
14	Inflación		Organización de las ciudades de un país según tamaño e importancia
15	Emigración		Lugar concreto donde se asienta una ciudad
16	Refugiados		Organismo que facilita la búsqueda de trabajo y formación a los parados
17	Convenio colectivo		Índice que refleja la situación económica de un país
18	Saldo Migratorio		Localización de una ciudad en relación con otros lugares
19	Sociedad Anónima		Legislación y actuación del Estado sobre la economía de un país
20	Bien económico		Dinero que aportan empresas y ciudadanos para financiar al Estado

16. – Relaciona los siguientes términos con su definición:

1	Teledetección		Tipo de explotación indirecta a cambio de un porcentaje de la cosecha
2	Balanza de pagos		Escalonamiento de la vegetación en altura en el clima de montaña
3	Trust		Tipo de contaminación por CFC
4	Arrendamiento		Años que se espera viva una persona que acaba de nacer
5	Cartografía		Tipo de explotación indirecta a cambio de un pago fijo en dinero o especie
6	Megalópolis		Cría de peces y otras especies marinas o de río en cautividad
7	Superpoblación		Registro de todas las transacciones de un país
8	Agricultura extensiva		Espacio natural modificado por el hombre para las actividades agrarias
9	Capital		Agricultura con aportación de trabajo y capital y elevados rendimientos
10	Desarrollo sostenible		Sistema de posicionamiento global
11	Espacio agrario		Actividades económicas para transformar materias primas en productos
12	Agujero capa de ozono		Asociación de varias conurbaciones
13	Aparcería		Agricultura con escasa capitalización y escasos rendimientos
14	Cártel		Resultado de la contaminación por CO_2 de la atmósfera
15	Esperanza de vida		Concentración vertical de empresas que controlan un sector productivo
16	Agricultura intensiva		Ciencia que se encarga del estudio y elaboración de mapas
17	Cliserie		Desequilibrio entre población y recursos
18	Calentamiento global		Factor de producción formado por fábricas, maquinaria y financiación
19	Acuicultura		Aprovechamiento de recursos sin dañar el medioambiente
20	Sector secundario		Concentración horizontal de empresas para fijar precios y mercados